新北市立新店高中 112 學年度第二學期高一、二期末考一年級地理科試題

※範圍：龍騰版地理第二冊第四章~第六章(p110~183)

高一_____班　座號：____　姓名：_____

一、　單選題(每題 2 分，共 20 分)

1. 日治時期，隨著日本國內軍國主義的抬頭，日本積極準備向外擴張，軍方大倡「南進國策論」，希望取得東南亞豐富的自然資源，以做為日本帝國的「南方生命線」。臺灣因而成為所謂的「南進基地」。此與臺灣具備哪一位置特色有關？(A)靠近亞洲大陸　(B)處板塊接觸帶　(C)位居東亞島弧中樞　(D)為南島語系發源地。

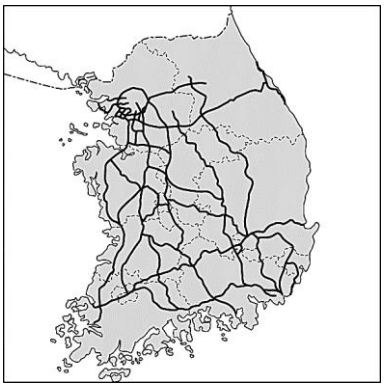

2. 右圖為南韓高速公路的路線分布地圖，圖中最可以反映出朝鮮半島的哪一項環境特性？(A)冬季時吹西北季風　(B)海岸線曲折　(C)地形東高西低　(D)寒流流經東部沿海

3. 英國為工業革命最早的起源地，與其優越的條件有關，下列敘述正確的是？(甲)發達的海運；(乙)創新商業金融制度；(丙)國內物產豐富提供大量原料；(丁)工業技術的發明與創新(A)甲乙丙　(B)甲乙丁　(C)甲丙丁　(D)乙丙丁。

4. 中國的沙塵暴主要發生在北方地區，其中南疆盆地、青海西南部、西藏西部及內蒙古中西部和甘肅中北部是沙塵暴的多發區，以春季發生的頻率最高。據統計，沙塵暴捲起的沙塵，80%往日韓方向傳送，最遠到達美國；約 20%往東南傳送到華南，甚至到達臺灣。「沙塵暴捲起的沙塵，80%往日韓方向傳送，最遠到達美國。」此現象和沙塵暴哪特性關係最密切？(A)沙塵暴多發區均位於西風帶中　(B)不合理的土地開方導致沙塵暴頻率增高　(C)造成沙塵暴的最大主因是土地沙漠化不斷擴張　(D)春季乾旱少雨，氣溫升高，冷空氣活躍，是沙塵暴活躍的主因

5. 下表是臺灣四大區域平均每戶年收入指數的變遷資料，下列哪一張圖最適合用來解釋此一現象？

年代	北部區域	中部區域	南部區域	東部區域
民國 75 年	113	92	89	81
民國 85 年	114	89	89	80
民國 90 年	115	90	86	80

(A)

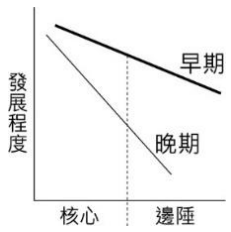

(B)

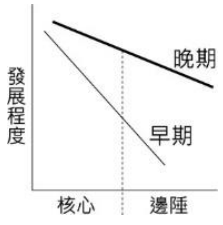

(C)

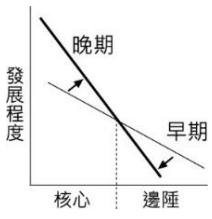

(D)

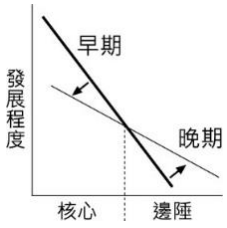

6. 照片是臺灣南部某教堂的立面照及部分的放大圖。就其立面景觀，可反映臺灣的哪項特性？
(A)農村社會活絡
(B)南島語族多元
(C)東西文化融合
(D)民間思想創新



7. 右圖是臺灣某座橋梁上的標誌。該照片的拍攝地點，其拍攝方向最可能為下列何者？
(A)由東往西　(B)由西往東
(C)由南往北　(D)由北往南



8. 「據外電報導日本瀨戶內海淡路島上的便利商店，重新開張了。走進店裡，不僅通道變寬，櫃檯降低，還加上扶手；貨架變矮，標價牌上的字體變大了；而且還賣起和菓子、新鮮野菜、專用眼鏡、健康雜誌等商品。最棒的是，店裡多了 4 張桌子做為休息區。這已經是專為當地顧客重新改裝、定位的第 20 家門市。」就該篇報導的內容來看，最適合使用下列哪一個標題？
(A)中高齡人口成為消費新主力　(B)日本農村人口外流嚴重
(C)日本城鄉經濟收入大不同　(D)聚集經濟開創便利商店新局

9. 福菜是苗栗縣公館鄉居民的傳統食物，其製作通常是在二期稻作收割後，於田裡栽種芥菜，經 60 幾天生長後，採收醃製而成。2009 年，公館鄉舉辦了第一屆的福菜文化節，邀請鄉內小朋友體驗採福菜、曬福菜活動，小朋友興奮地抱起一棵棵福菜，在田裡鋪成臺灣的圖案。若將臺灣居民分為四大族群，文中舉辦福菜文化節的鄉鎮，主要的居住族群為何？
(A)新住民　(B)客家人　(C)閩南人　(D)原住民

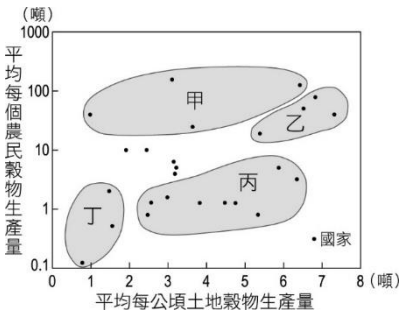

10. 右圖是綜合世界部分國家農業經營特色，所劃分而成的四種農業型態。若將其對應至東亞文化圈所涵蓋的稻作國家，其農業經營最可能屬哪個型態？(A)甲　(B)乙　(C)丙　(D)丁

二、　題組題(每題 2 分，共 80 分)

<u>請問 11~14 題</u>

◎ 十六～十九世紀的大西洋三角貿易使西歐國家獲得豐厚利潤，而且透過每一次的三角貿易就可以獲得三筆利潤，累加後的獲利，利於推動西歐國家和北美的原始資本累積，促進了這些地區資本主義經濟的發展。

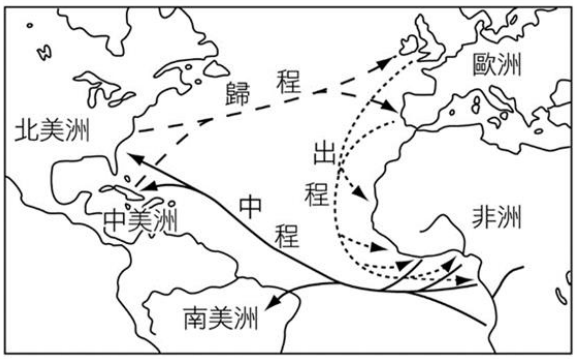

11. 根據上文，此種這種區域間相互依賴的貿易關係可用何種概念說明？(A)區域經濟合作　(B)商品圈擴大
(C)不平等交換　(D)交通革新。

12. 請參考圖一和資料，請問三角貿易中的「三次利潤」是指依序從歐洲開始沿途販售哪些主要商品來賺取三次的利潤？
(A)出程—棉布、靛青；中程—蔗糖；歸程—棉花、菸草
(B)出程—醃漬漁貨、菸草；中程—蔗糖；歸程—軍火、紡織品

(C)出程—軍火、蘭姆酒；中程—黑奴；歸程：蔗糖、菸草
(D)出程—紡織品、軍火；中程—黑奴；歸程—紡織品、靛青

13. 請問三角貿易對於大西洋兩岸地區的影響，下列何者正確？
(A)因為歐洲大量的工業產品傾銷到非洲，使非洲的傳統工業發展受限　(B)三角貿易利潤的大量累積，使核心國如英國，產生貨幣貶值的問題　(C)使非洲被排拒於世界體系之外，而北美洲成為世界體系中的邊陲區　(D)因黑人大量進入中南美洲，使得中南美洲成為半邊陲區

14. 當時歐洲貿易船隊航運多仰賴洋流與風向。若當時船隊預計從非洲前往南美洲，主要借助哪到行星風系？(A)I.T.C.Z　(B)西風　(C)西南風　(D)東北信風

請問 15~16 題

◎ 臺灣在 1992 年通過「就業服務法」後，正式引進國際移工，臺灣的國際移工可分成產業移工和社福勞工，前者主要在工廠就業，以菲律賓籍占多數；後者主要為家庭的看護工。圖為 2022 年臺灣各縣市國際移工人數統計圖。

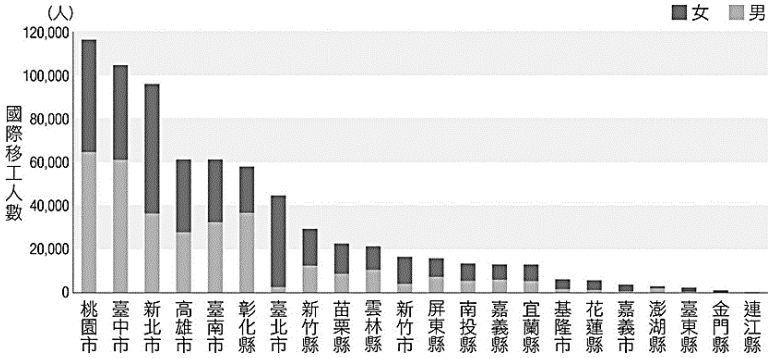

15. 下列哪一個地理概念最能解釋國際移工在各縣市的空間分布？(A)微笑曲線
(B)都市成長　(C)產業連鎖　(D)中地體系

16. 臺北市國際移工人數組成中，女性國際移工人數遠高於男性移工人數的主要因素與下列何者有關？(A)以第三級產業為主的都市機能　(B)老化指數居全臺縣市前三名
(C)土地使用分區多為住宅區　(D)交通易達性高

請問 17~18 題

◎ 2021 年春季，臺灣各地進入不同程度的減壓供水、限水、停耕、歇業等情況，此為自 1947 年以來最嚴重的乾旱事件。右圖為 2021 年 5 月 21 日臺灣水情燈號分布圖。

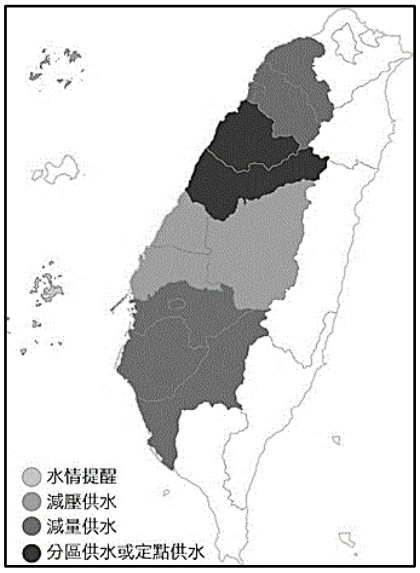

17. 5 月份的某種天氣現象由於降雨雨區大、雨時長，使缺水警報得以解除，此種天氣現象是臺灣主要的降水來源之一，請問其降水類型應為下列何者？
(A)鋒面雨　(B)颱風雨　(C)對流雨　(D)地形雨

18. 以下是從供水情勢圖中所得到的訊息與判斷，正確的敘述為何？
(A)東北部水情較西南部正常，係冬季迎風降雨所致
(B)西部比東部用水緊張，是因為河流規模較小、可蓄水量少
(C)東北部水情較西南部正常，主要是因家庭生活用水量較少
(D)西部比東部用水緊張，原因是東部主要用水產業非農業部門

請問 19~20 題

◎ 某生使用一地名關鍵字在地名資訊服務網上查資料做臺灣某離島的報告，整理成如右表的內容。

地名查詢			
名稱	類別	經度	緯度
田浦	聚落	24.478591°N	118.459706°E
西浦頭	聚落	24.464785°N	118.317622°E
後浦	聚落	24.487213°N	118.412598°E
浦山里	行政區	24.484078°N	118.389000°E
浦邊	聚落	24.479314°N	118.390769°E

19. 某離島最可能為？

(A) 
(B) 
(C) 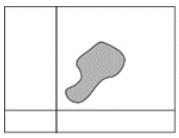
(D) 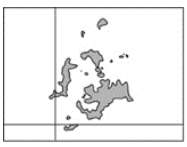

20. 表中地名關鍵字，與下列哪個地名所表示的自然環境最相近？
(A)樟湖 (B)前鎮 (C)大坪林 (D)後澳

請問 21~24 題

◎ 韓國大型財閥占了全國 GDP 比重高達八成，掌控了韓國經濟和日常生活。也導致年輕人以進入大企業工作為主要目標，進而衍生出非畢業自明星大學無法進入大企業的升學壓力，尤其 2000 年後大學畢業人數大增，求職壓力仍相當大，因此即使是韓國工程師身價沒有想像中的好；除此之外，低薪也是韓國嚴重的社會問題，年輕族群月薪平均等同 2 萬多台幣，物價高使他們要維持基本開銷很困難，造成必須放棄戀愛、結婚、生子、就業、買房、人際關係與希望的「七拋世代」。

21. 有關大財團對韓國的影響，正確的有哪些？(甲)龐大資源集中特定集團，國家經濟迅速發展；(乙)具獨占性，壓縮中小企業生存空間；(丙)遇到危機時應變靈活度低，易受外在環境衝擊；(丁)高度仰賴國內內需市場，貿易依存度低；(戊)財富和資源過度集中，社會貧富差距懸殊
(A)甲乙丙丁 (B)乙丙丁戊 (C)甲丙丁戊 (D)甲乙丙戊

22. 韓國財閥因具有下列哪一個特質，因而有強大競爭力？
(A)規模經濟 (B)聚集經濟 C)產業連鎖 (D)產業群聚

23. 造成「韓國工程師身價沒有想像中的好」可能原因為何？(A)韓國高科技製造產業主要承接低附加價值的組裝工作 (B)韓國國內相關科系畢業競爭者數量眾多 (C)在基本薪資保障制度下許多企業選擇裁員 (D)韓國高科技製造產業工廠外移至東南亞等國家

24. 下列哪個是「七拋世代」所衍生的韓國社會現象？
(A)扶老比下降 (B)人均所得提高 (C)人口總數將逐年減少 (D)房地產市場泡沫化

請問 25~26 題

◎ 下列為臺灣四個區域北、中、南、東未按順序排列）的氣溫雨量圖。

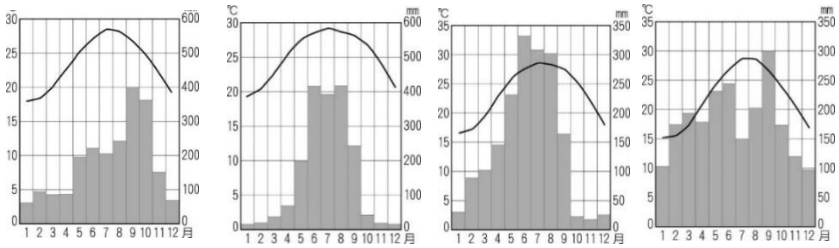

（甲） （乙） （丙） （丁）

25. 某市許多傘具店都打出「晴天九折，雨天沒折」的廣告標語。若這四大區域都擁有相同數量的傘具店，其中哪個區域的店家，全年總獲利可能最佳？(A)甲　(B)乙　(C)丙　(D)丁

26. 哪一個區域在夏季最易受焚風與颱風的侵襲而折損農作收成？
(A)甲　(B)乙　(C)丙　(D)丁

請問 27~29 題

◎ 段落一十九世紀中葉以前，由於清朝的對渡貿易政策使臺灣的幾個地區順勢崛起（如圖一），當地文學家於其作品分析昔榮今衰的原因寫到：「蓋 OO 扼南北之中，其海口去閩南之泉州，僅隔一海峽而遙。閩南、浙、粵之貨，每由 OO 運輸而入；而臺北、臺南所需之貨，恆由 OO 輸出。乃至臺灣土產之輸於閩、粵者，亦靡不以 OO 為中樞。」

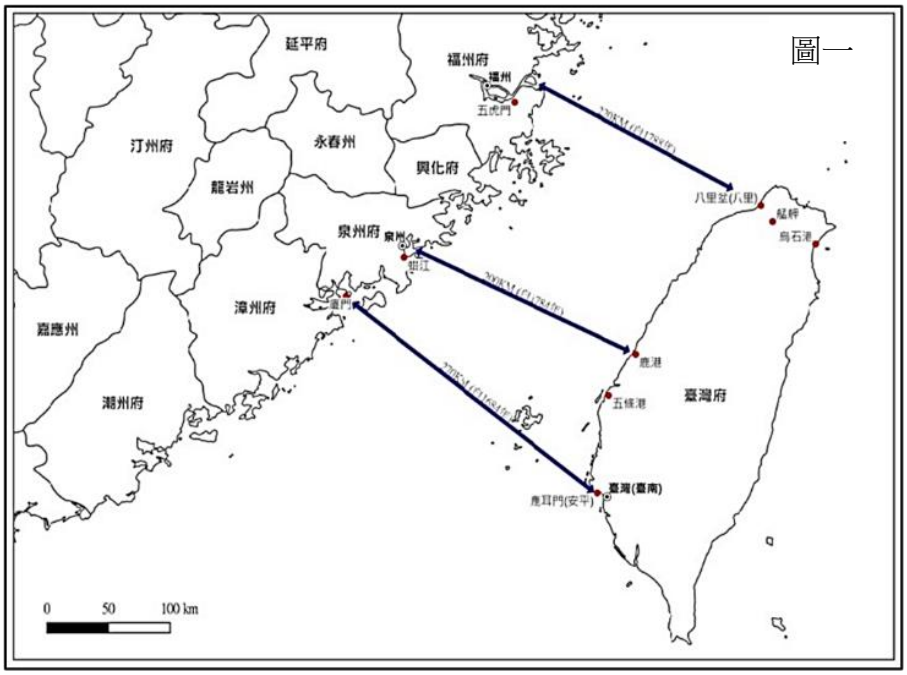

段落二然而，海岸線持續向西延伸，導致清朝政府多次改變對渡泉州的港口（圖二「●」處），1837 年，自 OO 郊商於大武郡溪出海口建立沖西港後，所有前往 OO 的商船都在沖西港停泊，藉由竹筏載往 OO。」



段落三到了日治時期，OO 周邊的港口功能衰落，貿易量急遽下降，加上為聯結日臺的經濟，日本政府勢必發展條件更好的條約港。當地文學家更是描述：「洎乎火車之路（註：縱貫鐵路），外貨之來由南北而入，不復由 OO 而出矣。」即使政府嘗試透過替代方案振興當地，仍然回天乏術。

27. 由段落一與圖一的敘述，歸納出「OO」成為通商口岸的兩項的優勢條件。請選出其最可能得出下列哪一個答案？
(A)段落一：轉運樞紐；圖一：天然良港
(B)段落一：腹地廣大；圖一：天然良港
(C)段落一：天然良港；圖一：位置適中
(D)段落一：轉運樞紐；圖一：位置適中

28. 海岸線向西延伸，與 A 溪、B 溪從上游沖刷下來的豐沛泥砂有關「OO」位於圖三(右圖)的哪一個地形區？(A)乙　(B)庚　(C)辛　(D)壬



29. 根據段落三，「OO」到了日治時期以後沒落的主因，除了自然環境因素以外，大致上也與臺灣其他地區出現什麼樣的互動結果？(A)反吸　(B)擴散　(C)區域互賴　(D)比較利益

請問 30~33 題

◎　根據資料一至三回答下列問題。

資料一：過去十多年中國成為世界工廠，吸引外國投資，增加貿易並解決失業問題。現在，全世界有一半成衣來自中國，1／3 手機在中國製造，各式各樣標示著「中國價」、「中國製造」的產品銷往全球和世界接軌。

資料二：2011 年，為了轉型升級「某區」的產業，廣東省政府實施「騰籠換鳥」政策，下令兩大類型產業轉移至其東部、西部兩翼，以及北部山區，以利高科技產業移入。

資料三：最近當地許多工廠老闆抱怨工人嚴重短缺。這消息凸顯出一個令人吃驚的趨勢，原本被認為是取之不竭的中國勞動力市場，已經因為人口結構改變而發生重大的變化。

30. 根據資料一，中國被稱為世界工廠及世界市場，主因為中國擁有下列哪些工業區位優勢？
(A)市場、資金　(B)資金、勞工
(C)技術、原料　(D)勞力、市場

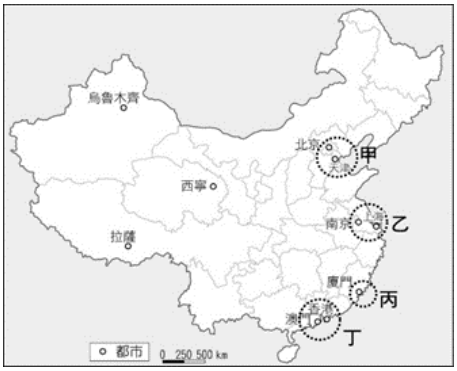

31. 根據資料二，「某區」為右圖四個沿海開放區的何處？
(A)甲　(B)乙　(C)丙　(D)丁

32. 根據資料二，此兩大類型產業最可能為何？
(A)勞力密集型、原料取向型　(B)技術密集型、資金密集型
(C)原料取向型、技術密集型　(D)勞力密集型、資金密集型

33. 根據資料三，何者為目前中國的人口金字塔結構？

(A) 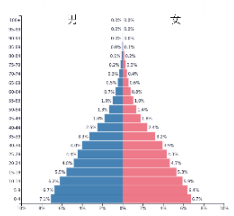
(B) 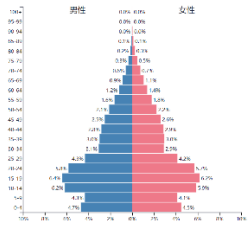
(C) 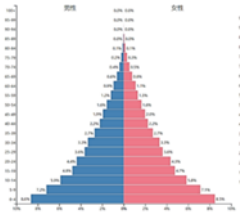
(D) 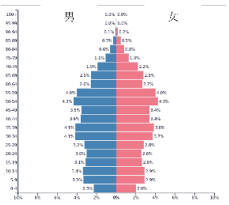

請問 34~37 題

◎　由於臺灣的資源與市場有限，長期以來即與全球市場保持密切往來，因而進出口發達。下表為臺灣經濟發展歷程。

時間	戰後初期	1970 年代 （民國 60 年代）	1980 年代 （民國 70 年代）	2010 年代 （民國 100 年代）
發展階段	甲	乙	丙	
發展背景	1.欠缺工業原料 2.國內市場小 3.低廉勞動力	1.國際情勢變動（外交挫折與石油危機） 2.十大建設	1.勞力成本高漲→輕工業外移 2.環保意識興起→重工業外移 3.國際經濟環境改變（優惠關稅取消與臺幣升值）	
產業	戊	己	庚	辛

34. 下列甲、乙、丙發展階段配對，何者正確？
(A)甲、技術與知識密集　(B)乙、技術與知識密集　(C)丙、資本密集　(D)丙、技術與知識密集

35. 政府採行「設廠限制」、「節省外匯」、「提高關稅」措施，較可能發生在哪一時間？
(A)戰後初期　(B)1970 年代　(C)1980 年代　(D)2010 年

36. 「美寧娃娃曾經陪伴泰山走過歷史，在臺灣代工的年代，全球知名的玩具大廠 Mattel 在泰山設廠。芭比娃娃從材料生產到包裝出口，完全在泰山完成，現已在當地設立產業文化館。」上述中提及的產業，最可能填入哪一個代號欄位中？
(A)戊　(B)己　(C)庚　(D)辛

37. 右圖為丙階段臺灣進口貨品的金額，從圖中可以觀察出臺灣的經濟發展，最可能具有下列何種特色？
(A)進口金額顯示貿易依存度高　(B)大量進口代表國內市場擴大　(C)明顯呈現貿易逆差　(D)臺灣相當欠缺天然資源

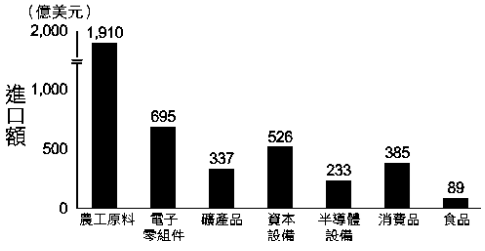

請問 38~40 題

◎ 圖(五)為日本簡圖，甲～丁分別為四個著名都市。



38. 圖(四)是世界著名遺產合掌村的冬雪美景，請根據照片中的景觀判斷該地可能位在圖(五)的哪個位置？
(A)甲　(B)乙　(C)丙　(D)丁

39. 若以方位角表示，合掌村冬雪景觀主要為哪種風向造成？
(A)45°　(B)135°　(C)225°　(D)315°

40. 受到氣候型態的影響，日本發展出浴衣文化，韓國則有泡菜文化，此兩者分別與什麼氣候特徵有關？(甲)浴衣—寒冷的冬天；(乙)泡菜—寒冷的冬天；(丙)浴衣—炎熱的夏天；(丁)泡菜—炎熱的夏天(A)甲乙　(B)乙丙　(C)甲丁　(D)丙丁

圖(五)

請問 41~44 題

◎ 右圖為日本經濟成長率變遷圖。

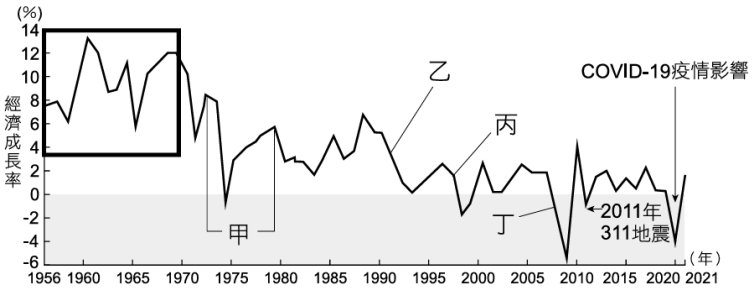

41. 1960～1970 年間日本的經濟成長率高，平均都在 10%左右，此時日本政府的產業主軸為何？(A)重工業　(B)國防工業　(C)高科技產業　(D)農產加工業

42. 甲事件最可能對日本造成下列何種影響？(A)日本汽車的海外銷售量下滑　(B)政府大力推廣文化觀光產業　(C)發展低耗能、高附加價值產品　(D)股市房市崩跌，至今未完全恢復

43. 某段時間日圓急速升值，日本政府採取低利率因應，卻造成股市和房地產暴漲的現象。此描述指的是上圖何段時間？(A)甲　(B)乙　(C)丙　(D)丁。

44. 日本前首相安倍晉三自 2012 年實施量化寬鬆（QE）政策，以三項方針進行，又稱為「安倍經濟學（Abenomics）」，造成經濟微幅成長。此政策對日本產生哪些影響？(甲)日圓升值，有利於進口；(乙)旅日遊客數量增加；(丙)全球資金流向日本；(丁)國內進口物價上漲
(A)甲丙　(B)甲丁　(C)乙丙　(D)乙丁

請問 45~47 題

◎ 中國地勢西高東低，呈三階梯狀，附圖為中國地形示意圖。



45. 中國第一階地形區內的山脈多呈東—西走向，其山脈的走向與下列何者關係最密切？
(A)科氏力偏轉方向　(B)板塊擠壓方向　(C)火山熔岩性質　(D)地質生成年代

46. 哪些地理區位於第二階梯內？(甲)帕米爾高原；(乙)黃土高原；(丙)四川盆地；(丁)華北平原。
(A)甲乙　(B)丙丁　(C)乙丙　(D)甲丁

47. 下列中國哪些地理現象深受三級階梯狀地形特徵的影響？(甲)人口產業集中東部；(乙)位於板塊交接處；(丙)海洋暖濕氣流深入內陸；(丁)季風氣候盛行。
(A)甲乙　(B)丙丁　(C)甲丙　(D)乙丁

請問 48~50 題

◎ 世界體系的形成有其歷史脈絡，故在世界體系結構中，核心區與邊陲區的關係並非固定不變，下列甲、乙、丙三張圖為世界體系不同時期的分布情形。

甲



乙

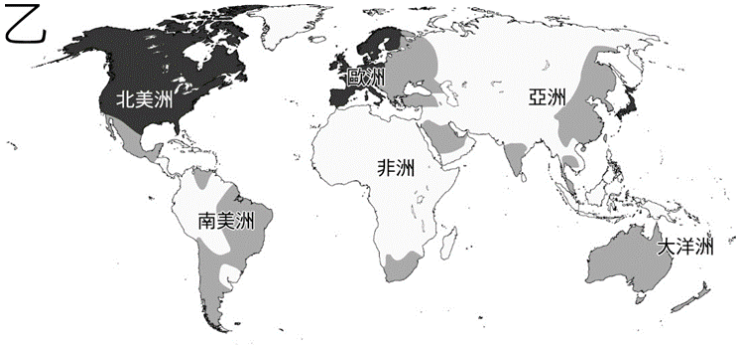

48. 請排出甲～丙的正確發展順序？
(A)甲乙丙　(B)丙甲乙
(C)甲丙乙　(D)乙甲丙

49. 下列對於甲～丙三張圖的描述何者正確？
(a)甲圖所示之時期與西歐殖民活動興盛時期有所重疊；(b)乙圖為殖民活動興盛時期，已透過交通革新將全球各地併入世界體系當中；(c)丙圖所示之時期核心區的霸權以英國為代表；(d)工業革命從甲圖所示之時期開始，使西歐與北美形成核心區；(e)三個時期雖表示不同時代，但皆有大型跨國公司操控著邊陲區。
(A)abd　(B)bce　(C)cde　(D)ace

丙

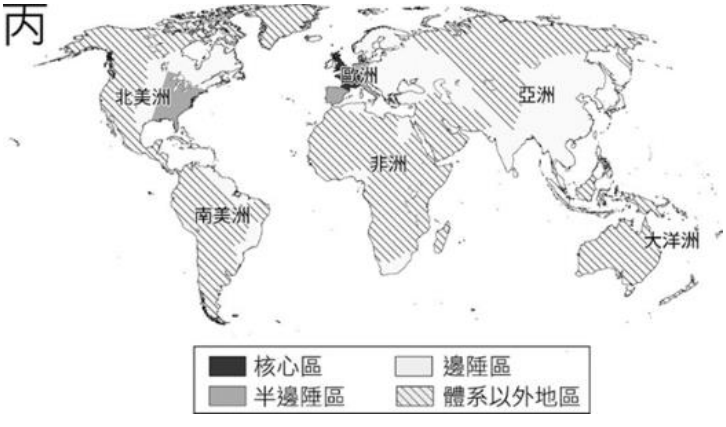

50. 以下四位同學根據乙圖所呈現的世界體系結構與實際認知的差異，誰的論述最合理？
(A)菲律賓屬半邊陲區，為開發中國家後起之秀
(B)加拿大屬邊陲區，因為具有強大的支配性
(C)中國應屬核心區，因為進入工業化的階段
(D)中國應屬邊陲區，其出口商品附加價值低

【試題結束，祝大家期末順利 ALL PASS】