新北市立新店高級中學112學年度第2學期高一歷史第二次期中考

版本及範圍：南一版高中歷史第二冊第三章-第四章

班級：　　座號：　　姓名：

一、基礎題(共25題，每題2分，共50分)

1. (　　)亞洲某處沿海寺廟的建廟碑文寫道：「……崇祀聖母神像，我唐人所共建也。自嘉慶二十三年（1818年），英吏斯臨，新闢是地，……謂可為商賈聚集之區。……數年之間，遂成一大都會。我唐人由內地帆海而來，經商茲土，惟賴聖母慈航。」從碑文判斷，此寺廟最可能的地點是：(A)新加坡 (B)雅加達 (C)馬尼拉 (D)長崎

2. (　　)西漢初期，漢高祖駕崩後，匈奴單于隨即致書信予高祖皇后呂雉，內容如下：「孤僨之君，生於沮澤之中，長於平野牛馬之域，數至邊境，願遊中國。陛下獨立，孤僨獨居。兩主不樂，無以自虞，願以所有，易其所無。」請問該書信中單于的態度，反映出西漢初期漢人與匈奴的軍事實力對比情況為何？
(A)漢人較為強勢，匈奴較為弱勢 (B)匈奴較為強勢，漢人較為弱勢
(C)匈奴分裂內亂，漢人統一安定 (D)漢人分裂內亂，匈奴統一安定

3. (　　)北宋末年有詩云：「泉州人稠山谷瘠，雖欲就耕無地辟，州南有海浩無窮，每歲造舟通異域。」該詩最可能說明當時泉州具有下列哪種社經發展特色？
(A)生產技術革新，促使沿岸漁業產量提升，居民財富得以增加
(B)土地贍養力低，人們多前往臺灣從事墾殖，在異鄉建立聚落
(C)產業升級快速，從事手工業以增加附加價值，提高人均收入
(D)人口壓力過重，居民透過對外貿易創造利潤，彌補家鄉生計

4. (　　)請閱讀以下資料並回答問題
資料甲：「奉天地方為滿州根本，所關實屬緊要，理合肅清，不容群黎雜處，使地方利益，悉歸旗人」
資料乙：「咸豐、同治年間，戰亂和災荒使山東、直隸農民湧入東北謀生，而在1858年清朝簽訂一項條約後，開始移民實邊政策，首先在奉天開放官荒、牧場，並在甲午戰爭後全面開放漢人移民。」
請問促使清成政府立場由資料甲轉向資料乙的關鍵原因為何？
(A)英法聯軍攻佔北京 (B)鴉片戰爭戰敗割地
(C)英國煽動藏民暴亂 (D)俄國入侵清朝領地

5. (　　)研討會上，學者爭論清朝前期成功統治帝國的原因，有兩類解釋：第一類認為是統治者在不同地區，包括新疆、西藏、蒙古、關內，因地制宜，採取不同統治策略，形成一多民族帝國。第二類認為是統治者採取漢化政策，才能以少數民族身分入主中原。我們應如何理解這兩種歷史解釋？
(A)第一類學者採取多元主義觀點，解釋較空疏，不具學術意義
(B)第二類學者站在華夏中心主義，立場相對客觀，解釋較可靠
(C)第一類解釋的證據：實施八旗制度、西南地區實行改土歸流
(D)第二類解釋的證據：動員學者編纂《四庫全書》、開科取士

6. (　　)相較於宋元時期，明清兩朝的海外發展少有積極作為，常因遇政經困境而頒布禁令

或限制性措施，其相關政令如下，請依照時間先後順序排列。甲、因倭寇不時侵擾，皇帝下令實施海禁；乙、為防堵鄭氏政權，嚴格實施海禁；丙、派遣鄭和出海，船隊最遠抵達非洲東岸；丁、以海防為由，將對外貿易限制於廣州一地。

(A)甲乙丙丁 (B)乙丁甲丙 (C)丙甲乙丁 (D)乙丁丙甲

7. (　　) 學者描述某地區的歷史與人口結構發展：該地見證了華人的快速遷入。華人不見得都在礦場或都市生活，許多人種稻、種菜，或者經營小橡膠園。外來人中還有來自印度與斯里蘭卡的勞工，他們或為契約工人，或者擔任公務人員；也有來自蘇門答臘與爪哇的移民，但比不上華人與印度人的增加。依據你的歷史知識，某地區最可能是：

(A)馬來半島 (B)澳大利亞 (C)美國加州 (D)非洲東部

8. (　　)請閱讀以下資料並回答問題：

資料甲：「葡萄美酒夜光杯，欲飲琵琶馬上催，醉臥沙場君莫笑，古來征戰幾人回」

資料乙：「北斗七星高，哥舒夜帶刀。至今窺牧馬，不敢過臨洮」

資料甲、乙皆為唐代詩作，請問其中可窺見唐代與周邊民族的互動關係為何？

(A)既有商業貿易及文化交流，亦有軍事對抗 (B)僅有商業貿易及文化交流

(C)僅有軍事對抗 (D)唐代興建長城阻絕與周邊民族交流

9. (　　)顏氏家訓中有一段故事：「齊朝有一士大夫，嘗謂吾曰：『我有一兒，年已十七，頗曉書疏，教其鮮卑語及彈琵琶，稍愈通解，以此伏事公卿，無不寵愛，亦要事也。』吾時俛而不答。」請問文中可看出北齊時的何種現象？

(A)胡人逐漸漢化，學習漢文化 (B)部分漢人為迎合統治者而積極胡化

(C)胡漢之間的界線已然消除，胡人喪失其傳統 (D)漢人皆不願意胡化

10. (　　)1895 年，福澤諭吉發表〈臺灣永遠的方針〉：「(臺灣) 現在既然歸入我國版圖，便不容許照舊交付蠻民手中，應自內地大舉移民開發富源，這樣纔符合文明的本意。政府的方針一定，諒不催促也有多數內地人希望移居。自蠻民手中褫奪開闢以來的野蠻事業，加以文明方式的新創意，無疑可獲驚人的發展。」根據上文，福澤諭吉主張「內地人」大量移民臺灣，主要目的應是：

(A)複製北海道農業移民經驗 (B)解決日本人口膨脹的問題

(C)成為日本帝國南進的基地 (D)透過移民以達到殖產興利

11. (　　)有關中國史上遊牧民族建立的政權，學者魏復古曾提出滲透王朝與征服王朝之說來將其歸類，請就歷史知識判斷，下列何者配對正確？

(A)契丹所建的遼朝屬於滲透王朝 (B)蒙古所建的元朝屬於滲透王朝

(C)鮮卑所建的北魏屬於征服王朝 (D)滿洲所建的清朝屬於征服王朝

12. (　　)比較下圖中第一期和第二期虛線以北、以南的人數差異，可以發現一個明顯趨勢。依據你的歷史知識，下列哪個概念最足以解釋此發展趨勢？

(A)經濟重心的轉移 (B)政府政策的引導 (C)南北風土的差異 (D)科舉制度的改變



13. (　　)某一時期，一艘駛向中國的外國船隻在冬天航行時，遇上暴風，漂流至中國東南沿海某地，船中乘客獲救，送往官府途中，險被民眾毆殺。這位乘客懂漢字，在與中國官員筆談後，得知該地長期以來受到外國海盜侵擾，村民誤認他是海盜，所以群情激憤。這個區域除了經常有外國海盜騷擾外，且因環境條件不佳， 謀生不易，導致人口常往海外移出。請問：題文中的這位乘客最可能是下列何者？
(A)日本派到長安的遣唐使者 (B)清初到北京考試的越南士人
(C)元代到泉州的阿拉伯商人 (D)明代到中國遊歷的朝鮮士人

14. (　　)一位大臣上書：因我朝恩德，南北兩國乃能以兄弟之禮，和平通好至今，長達數十年。有南方 大臣竟利用編寫前朝正史之便，將我祖先事蹟列為四夷傳。請我國史官也比照該國作法，將該國先世事蹟，列於我朝國史之末。這位大臣最可能是何時人士？雙方史官爭論的焦點為何？
(A)漢朝；利害之爭 (B)遼朝；正統之爭 (C)元朝；南北之爭 (D)清朝；道統之爭

15. (　　)有學者認為，清末造成最多人員損失的戰爭，並非對西方國家的戰爭，而是太平天國之亂與「某場」動亂。此一動亂最終由左宗棠率兵平定，並有不少參與平亂的軍隊駐紮、居住於當地，而引發動亂的族群，則被政府遷移至他處山區，也有一部分逃往中亞或東南亞。請問文中的某場動亂所指為何？
(A)捻亂 (B)川楚教亂 (C)義和團之亂 (D)回變

16. (　　)某朝代史家修撰史書，出現這種情況：書中常以文意欠佳的漢字，音譯異族姓名。究其故，除了這些王朝入主中原時，未盡通曉漢文，而致誤用同音字外，更有史官刻意借不雅文字，暗中詆毀當朝統治者，例如「蒙古」一詞，刻意音譯成「朦骨、盲骨」。這種情況常見於哪一種史書？
(A)宋代修的唐史 (B)元代修的金史 (C)清代修的明史 (D)民國修的清史

17. (　　)在歷史課程中，某生找到一份有關南宋繁華城市的資料：城中的民家緊鄰壕溝，甚至跨溝造屋而居，人們多將垃圾、穢物等丟棄溝中，不僅處處汙穢潮濕，偏街窄巷的氣味

更讓人掩鼻難耐。根據上述資料分析，下列哪個推論最合理？
(A)瘴癘盛行，導致城市惡臭潮濕 (B)城市人口密集，公共衛生欠佳
(C)財政匱乏，無力維修城郭街道 (D)政府忙於抗金，無力管理居民

18. (　　)泉州又名刺桐城，宋元時期是海外貿易重要港口，曾發現一方波斯人墓碑，刻有漢文、阿拉伯文與波斯文。阿拉伯文為：「人人都要嚐死的滋味。」波斯文為：「艾哈瑪德・本・和加・哈基姆・艾勒德死於艾哈瑪德家族母親的城市—刺桐城。」漢文為：「先君生於壬辰六月二十三日申時，享年三十歲。於元至治辛酉九月二十五日卒，遂葬於此。」此墓碑可作為下列哪項描述宋元時期泉州波斯人的佐證？
(A)經商客死他鄉者多 (B)會與漢人相互通婚 (C)全數已經改信祆教 (D)採用佛教喪葬儀式

19. (　　)學者指出，蒙古人統治各地區後，對各地宗教都一視同仁而給予優遇；在元代戶口職業世襲制度下，儒戶待遇約略等於佛僧和道士，是諸色戶口職業中較受優遇的一種，娼人地位遠低於儒戶，只是元代士人的仕進機會與在社會上所受尊崇不如前後各代。根據題文，以下何者最能說明元代統治者對儒士的立場？
(A)對儒士抱持懷柔寬容的態度 (B)與其他世襲戶口均平等對待
(C)貶抑儒士而削減其入仕機會 (D)類同宗教神職人員予以尊重

20. (　　)一份資料提到：1933 年的雙十國慶酒會選在臺北的鐵道旅館舉辦，出席的貴賓有美國、義大利駐臺領事及臺灣總督府高級長官。會場懸掛中華民國國旗，慶典中除演奏中華民國國歌外，還高呼「中華民國萬歲」。這段資料如何解讀最合理？
(A)當時滿洲國成立不久，日本乃邀請滿洲國官員來臺舉辦慶祝雙十國慶活動
(B)當時中日兩國的關係親密和善，臺灣總督府乃主動舉辦慶祝雙十國慶酒會
(C)當時來臺的中國僑民日多，國府已在臺北設立領事館，故能舉辦國慶活動
(D)當時的臺灣總督府正在進行皇民化政策，故舉辦雙十酒會來攏絡臺灣人民

21. (　　)某一時期起，商人從外地運來棉花，農家女子在家將棉花紡成棉紗，再織成棉布。農民家庭男耕女織的運作模式日漸明顯，而商人定期收集棉布，運往城鎮染色、整平，即可上市販售。請問：題文中這種生產形態，最可能出現於何時？
(A)宋代，為追求北方邊境和平，需不斷提供遼夏布帛
(B)戰國時期，男耕女織成為編戶齊民的主要生產形態
(C)明代，商業發達，產銷棉布為主的專業化市鎮興起
(D)三國時期，以布帛為貨幣，故紡織成為重要的產業

22. (　　)史家分析某一帝國特色：使用遊牧社會的軍事技術優勢，形成自給自足的強悍軍隊，並用寬容的手段，對待境內不同的宗教與文化，進而組成史上最大的陸地帝國，保護黑海到太平洋之間的貿易。這個帝國最可能是：
(A)西元前四世紀亞歷山大帝國 (B)西元十八世紀的大清帝國
(C)西元十三世紀的蒙古帝國 (D)西元十九世紀俄羅斯帝國

23. (　　)北魏年間，曾有一官員提及當時政策帶來的危機：「緣邊諸鎮，控攝長遠。昔時初置，地廣人稀，或徵發中原強宗子弟，或國之肺腑，寄以爪牙。中年以來，有司乖實，號曰府戶，役同廝養，官婚班齒，致失清流。而本宗舊類，各各榮顯，顧瞻彼此，理當憤怨。」請問題文中的危機，最終引發下列哪個歷史事件？
(A)安史之亂 (B)永嘉之禍 (C)川楚教亂 (D)六鎮之亂

24. (　　)金門有許多洋樓，建築上裝飾著象徵吉祥如意的鳳梨、祈求多子多孫的麥穗、象徵

科舉及第的螃蟹（以「甲殼」比喻「科甲」）、表示時間的西洋時鐘或扛著屋簷的印度苦力（象徵屋主的社會地位）。這些建築裝飾反映以下何種歷史現象？

(A)荷蘭人主導遠東貿易時期，當時盛行的建築風格也流傳至金門

(B)鄭成功家族前往巴達維亞貿易，並將當地的建築特色帶回金門

(C)民國早期，僑民從南洋帶回西方建築風格並融入金門傳統裝飾

(D)日本占領金門時，其商人引進當時歐洲最流行的巴洛克式裝飾

25. (　　)圖一、圖二為兩張招募移民的海報，展現日本官方移民政策的轉變。請問有關造成圖一至圖二政策演變的原因，下列敘述何者正確？

圖一



圖二



(A)日本政府在第一次世界大戰中喪失南美洲殖民地，轉而鼓勵向新成立的滿洲國移民

(B)日本政府在甲午戰爭後向外擴張，將移民的方向轉往台灣、滿州等殖民地或保護國

(C)日本政府為緩解浪人作亂問題而鼓勵移民南美，後因浪人抗議而轉向鼓勵移民滿洲

(D)日本政府在明治維新後制定南進政策與西進政策，先前往南美洲、後前往滿洲殖民

二、多選題(共 4 題，每題 5 分，共 20 分，每錯 1 選項扣 1 分且倒扣 1 分)

26. (　　)以下為兩首流行於民間的詩歌

詩歌甲：「大姨嫁陝二姨蘇，大嫂江西二嫂湖。戚友初逢問原籍，現無十世老成都。」

詩歌乙：「廣東湖廣與江西，客籍人多未易稽。吾處土音聽不得，一鄉風俗最難齊。」

有關以上詩歌的敘述，下列何者正確？

(A)兩首詩歌都在描述四川聚集大量不同省籍的移民

(B)兩首詩歌中呈現的現象最早可能出現在唐朝中期

(C)兩首詩歌中呈現的現象，其成因與流寇作亂有關

(D)兩首詩歌描述的移民是雍正年間改土歸流時移入

(E)兩首詩歌所描述的分別是四川與湖廣的移民現象

27. (　　)唐朝時曾發生過幾次「東都就食」事件。所謂東都就食，係指首都長安因糧食不足，致使天子必須暫時遷居至洛陽以獲取糧食。然而此事十分傷害皇帝威嚴，部分皇帝對此相當不滿，如唐中宗曾說：「豈有逐糧皇帝邪？」，並拒絕遷往洛陽。請就「東都就食」一事，依歷史知識判斷，下列哪些敘述正確？

(A)唐朝初期因安史之亂，長安周圍經濟尚未恢復，故前往東都獲取糧食

(B)為解決首都附近糧食不足問題，隋代、唐代皆興建運河用以輸送糧食

(C)此事件反應在隋、唐時期淮河以北的經濟發展已逐漸被淮河以南超越

(D)當時興建的京杭大運河僅通過洛陽而無通過長安，造成首都長安缺糧

(E)洛陽城周邊物產富饒，相較於長安更能滿足唐朝皇室所需的物資糧食

28. (　　)史學家陳寅恪曾描述一個中國史上的團體：「宇文泰更改府兵將士的郡望與姓氏，是要使他所帶來的山東人與關內人混而為一，使漢人與鮮卑人混而為一，組成一支籍隸關中、職業為軍人、民族為胡人、組織為部落式的強大軍隊，以與東魏、梁朝爭奪天下。」、「取塞外野蠻精悍之血，注入中原文化頹廢之軀，舊染既除，新機重啟，擴大恢張，遂能別創空前之世局。」有關此一團體，下列敘述何者正確？

(A)此一集團能作為華北地區胡漢融合的代表

(B)此一團體後來因六鎮胡人發動叛亂而消亡

(C)此一團體曾在中國史上建立隋、唐兩王朝

(D)此一團體具胡人色彩而較能接納游牧民族

(E)隋代創建科舉後失去政治上的壟斷地位

29. (　　)以下為十世紀以來中國引進的外來作物之描述：

資料甲：「大中祥符五年五月戊辰，帝以江、淮、兩浙稍旱即水田不登，遣使就福建取□□□三萬斛，分給三路為種，擇民田之高仰者蒔之，蓋早稻也。……稻比中國者穗長而無芒，粒差小，不擇地而生。」

資料乙：「不與五穀爭地，凡瘠鹵沙田，皆可以長。」

資料丙：「御麥出於西番，舊名番麥，以其曾經進御，故曰御麥。」

請問有關上述資料，下列何者正確？

(A)資料甲中的□□□應填入泰國稻；資料乙描述的作物是番薯；資料丙描述的作物是花生

(B)資料甲描述之作物，引進時間為宋朝，資料乙、丙描述之作物，引進時間為明朝

(C)資料甲描述之作物，引進時間為明朝，資料乙、丙描述之作物，引進時間為宋朝

(D)三份資料所描述之作物皆有助於減緩中國的人口壓力

(E)三份資料所描述之作物皆由西班牙人傳入中國

二、綜合題(共 10 題，配分如下，共 30 分)

第 30 至 32 題為題組。

十九世紀，華人開始大規模移民美國，先後從事開挖金礦、修建鐵路等勞力工作。當時載運華工橫渡太平洋的輪船公司，為了提高利潤而超載，船艙極端擁擠，華工在漫長旅途中，常受非人待遇而死亡，甚至有高達 64%的死亡率紀錄。即使如此，移民美國的華人仍持續增加。在鐵路修建告一段落時，又值美國政府立法廢除某項制度後，出現低階勞動力不足的現象，各地華人移工開始進入農、漁、工勞動市場，而白人擔心工作被奪取，薪資被壓抑，針對華人的種族暴力時有所聞。更多的華人陸續聚居到不同的市區，形成各地的「(甲)」族群聚落，其職業與行業特色以經營小生意為主，市場規模小但可互助兼自保。他們赴美時常將妻子留在家中撫養子女、照顧公婆；加上在海外謀生不易，妻子即使來美也不太可能有工作機會。因此，早期唐人街的男性華人，大多是過著類似「光棍」(單身）的生活。 1873 年後美國經濟蕭條，對華人移民的歧視更形加劇。在工會遊說及各州議會的強力支持下，美國國會在 1882 年完成立法、由總統簽署通過(乙)，對華人移民入境與取得美國籍都設下嚴格限制，直到二次大戰期間才因中國國際地位的提升而逐步解除。

請閱讀以下資料並回答問題：

30. 文章中的(甲)、(乙)分別為何？(各 3 分，共 6 分)

31. 在東南亞地區，也形成類似於文章中所述的「族群聚落」，而殖民者為管理方便，通常會委派社群中有力的華人擔任領袖，並賦予特殊稱號。請問該稱號為何？(3 分)

32. 文章中早期移民美國的華人，大多過著類似「光棍」(單身）生活的因素為何？請引用文章內容說明（2 分，20 字以內）

第 33 至 35 題為題組。

請閱讀以下資料並回答問題：

資料甲：

三川北虜亂如麻，四海南奔似永嘉。但用東山謝安石，爲君談笑靜胡沙。

資料乙：

怒髮衝冠，憑欄處、瀟瀟雨歇。抬望眼，仰天長嘯，壯懷激烈。三十功名塵與土，八千里路雲和月。莫等閒、白了少年頭，空悲切。靖康恥，猶未雪。臣子恨，何時滅？駕長車，踏破賀蘭山缺。壯志饑餐胡虜肉，笑談渴飲匈奴血。待從頭、收拾舊山河，朝天闕。

資料丙：

過江諸人，每至美日，輒相邀新亭，藉卉飲宴。周侯中坐而歎曰：「風景不殊，正自有山河之異！」皆相視流淚。唯王丞相(王導)愀然變色曰：「當共戮力王室(司馬家族)，克復神州，何至作楚囚相對！」

33. 以上三則資料皆為十三世紀以前遭遇大規模人口移動事件影響的歷史人物所撰，請問資料甲、乙、丙分別代表哪三個不同事件的影響？(各 3 分，共 9 分)

34. (　　)承上題，以上三則資料所代表的事件，按發生之先後順序排列為何？(2 分)
(A)甲乙丙 (B)丙乙甲 (C)乙甲丙 (D)丙甲乙

35. (　　)承上題，這些事件為中國經濟發展帶來的影響，可用下列哪一圖表呈現？(2 分)

(A)
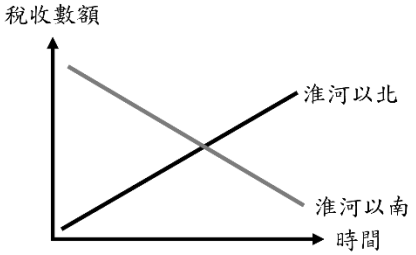

(B)
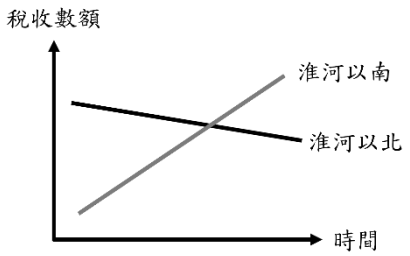

(C)
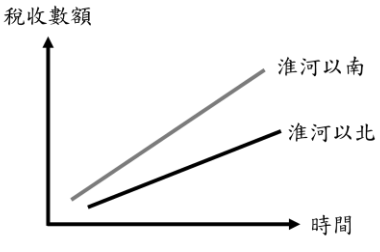

(D)
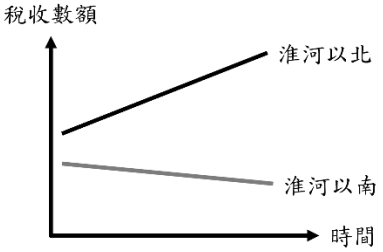

第 36 題組，請閱讀以下資料後作答。

明神宗萬曆年間，西班牙人屠殺呂宋華人，有份文件記錄當時皇帝對事件的看法：「……去年海外移民張嶷，妄稱爾呂宋機易山有礦金可採，有司覆聞；皇帝以為驚擾海邦、貽爾憂戚，遂付法曹斬之西市，傳首海上以告姦宄。乃聞張嶷去後，爾呂宋部落無故賊殺我漳、泉商賈者至萬餘人。有司各愛其民，憤怒上請，欲假沿海將士加兵盪滅，如播州例……皇帝以呂宋久相商

賈，不殊吾民；不忍加誅!又海外爭鬥，未知禍首；又中國四民，商賈最賤，豈以賤民興動兵革；又商賈中棄家游海、歷冬不回，父兄親戚共所不齒，棄之無所可惜!兵之反以勞師，終不聽有司言。」

36. 文中皇帝對於出兵攻打呂宋以報復屠殺漳、泉商賈一事，贊成或反對(2 分)其理由為何？請引用文章內容回答(4 分，20 字以內)

新北市立新店高級中學 112 學年度第 2 學期高一歷史第二次期中考答案卷

班級：_____ 座號:_____ 姓名：_____

得分：_____

30.(甲)(3 分)	30.(乙)(3 分)	31.(3 分)

32.文章中早期移民美國的華人，大多過著類似「光棍」(單身）生活的因素為何？請引用文章內容說明（2 分，20 字以內）

33.資料甲(3 分)	33.資料乙(3 分)	33.資料丙(3 分)
34.(2 分)	35.(2 分)	

36.文中皇帝對於出兵攻打呂宋以報復屠殺漳、泉商賈一事，贊成或反對(2 分)其理由為何？請引用文章內容回答(4 分，20 字以內)

請於下方□中勾選(2 分) □贊成 □反對	請於後方作答(4 分)										