新北市立新店高中 113 學年度第一學期 高二地理科(人商生醫) 期末考

範圍: 龍騰版地理 3 第五章&第六章。選擇題請畫在答案卡，題目卷共六頁。

■ **單選題(共 50 題，每題 2 分，共 100 分)**

1. 中華民國外交部官網顯示，截至 2024 年 10 月共有 12 個邦交國，中南美洲佔了 7 國，請問下列對於邦交國的描述，哪些正確？ (甲)瓜地馬拉具有馬雅文化特色；(乙)貝里斯全境為熱帶高地氣候；(丙)海地位於大安地列斯群島；(丁)巴拉圭位於圭亞那高地；(戊)聖克里斯多福及尼維斯、聖露西亞、聖文森及格瑞那丁這三國以火山島為主。
(A)甲乙丙 (B)丙丁戊 (C)甲丙戊 (D)乙丁戊

2. 美國東北部的沿岸地區是英國清教徒最早登陸的地點，當年清教徒在此面對較英國更寒冷的冬天，所幸獲得當地印第安人的協助，才得以生存下來。造成此區冬季較寒冷的主要原因，最可能為下列何者？
(A)緯度較高 (B)地勢較高 (C)盛行西風 (D)寒流經過

3. 美國東北部沿岸地區的各大都市，因都市擴張而彼此相連，呈現帶狀分布，被稱為「巨大都會帶」。造成其都市擴張的原因，最可能包括下列哪兩項？ (甲)捷運系統發達；(乙)都市就業機會高；(丙)市中心環境惡化；(丁)汽車使用普及。
(A)甲乙 (B)甲丁 (C)乙丙 (D)丙丁。

4. 圖 1 為沿著美國 45°N 的地形剖面圖。圖中各地最可能具有下列哪項特色？ (A)甲地屬於新褶曲山脈，火山、地震頻繁 (B)乙地受大陸冰河影響，不利於農業發展 (C)丙地的地質年代古老，蘊藏豐富的礦產 (D)丁地緊鄰大西洋，最靠近美國第一大港。



圖 1

表 1

代號	農業用地比例（%）		農戶比例（%）	
	農場土地面積＜1 公頃	農場土地面積＞50 公頃	農場土地面積＜1 公頃	農場土地面積＞50 公頃
甲	＜0.5	94	＜0.5	44
乙	30	＜0.5	71	＜0.5
丙	＜0.5	88	11	19
丁	25	5	68	＜0.5

資料來源：The state of food and agriculture 2014

5. 殖民者進入到中南美洲，向印第安人掠取大量土地，分封給軍官、貴族、大主教和商人，土地集中在少數人手中，形成大地主制。表 1 為日本、印尼、美國、巴西的土地所有權結構，哪個數據最符合巴西的特性？ (A)甲 (B)乙 (C)丙 (D)丁

6. 中南美洲各國獨立後呈現之政治、文化現象，具有下列哪項特徵？ (A)多數國家實施民主政治 (B)為數眾多的小農為了確保自身利益，積極參與社會運動 (C)各國統治者擔憂受到國外強權影響，排除英、法等外資進入 (D)美國藉地緣關係投資本區，並干涉該區國家內政

7. 圖 2 為美國礦產資源分布圖，甲～丁為當今四項重要能源。請問，下列哪一礦產的開採對於委內瑞拉的經濟造成嚴重的衝擊，使委內瑞拉的 GDP 自 2014 年由正轉負？ (A)甲 (B)乙 (C)丙 (D)丁

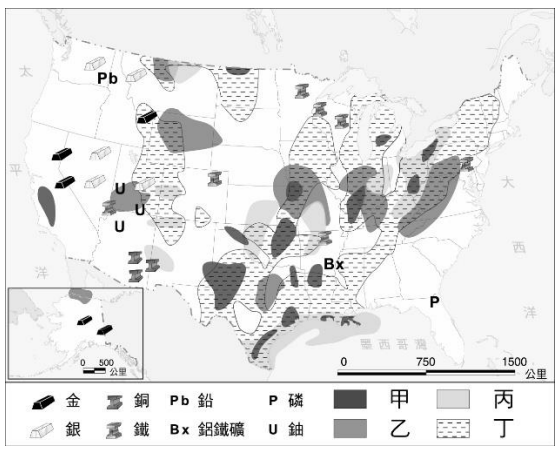

圖 2

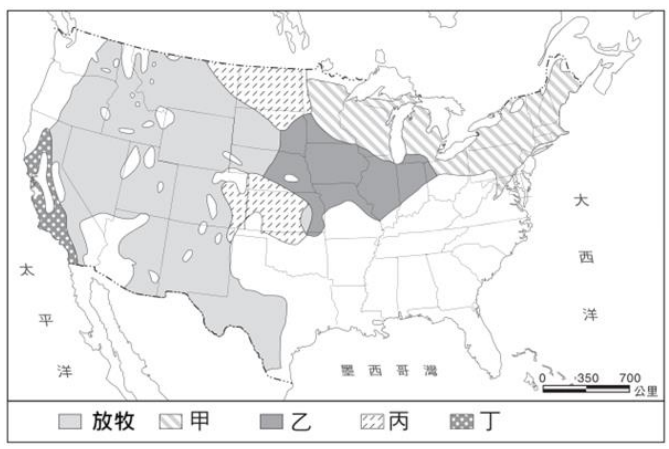

圖 3

8. 圖 3 為美國專業化農業帶分布圖，甲~丁農業帶分布配對下列照片景觀，哪一組正確？

(A)	(B)	(C)	(D)
甲農業帶	乙農業帶	丙農業帶	丁農業帶
			

9. 中南美洲各國獨立後的經濟發展，採取以下策略：(甲)初級產品出口；(乙)貿易自由化，擴大出口；(丙)進口替代的策略。依序為何？ (A)甲乙丙 (B)甲丙乙 (C)乙甲丙 (D)丙乙甲

10. 哪些地區的沙漠形成原因完全相同？(甲)美國西南部；(乙)阿根廷巴塔哥尼亞高原；(丙)智利北部；(丁)墨西哥西北部。
(A)甲乙　(B)甲丁　(C)乙丙　(D)丙丁

11. 美洲有相當多以 Santa、San 開頭的地名，此種現象的成因與下列何者有關？(甲)與早期來到美洲的福音傳播者有關；(乙)殖民者在當地命名時受到印第安語言的影響；(丙)與早期的殖民者其母國有關；(丁)與天主教的聖人等宗教用語有關 。 (A)甲乙丙　(B)乙丙丁　(C)甲丙丁　(D)甲乙丁

12. 許多歐洲人移民至中南美洲後，與當地居民相互影響，形成特殊的合成文化。對於合成文化的敘述何者正確？
(A)阿茲特克文明的金字塔建造技術是來自非洲埃及　(B)阿根廷探戈融合歐洲移民與非洲黑人的文化特色　(C)白人男性與非洲黑奴女性通婚的後裔為麥士蒂索人　(D)巴西狂歡節結合天主教節慶與印第安人的傳統舞蹈

13. 巴西的首都原本是位於東南沿海的里約熱內盧，西元 1964 年，巴西政府將首都遷到內陸的巴西利亞，其最主要的考量為何？　(A)均衡區域發展　(B)開發內陸礦產　(C)軍事戰略考量　(D)天災之後重建。

14. 圖 4 為世界各國平均國民所得分布圖。依照圖中數據與南方區域的意涵，何者屬於南方區域的地區？ (甲)非洲；(乙)中南美洲；(丙)熱帶亞洲；(丁)澳紐。　(A)甲乙丙　(B)乙丙丁　(C)甲丙丁　(D)甲乙丁

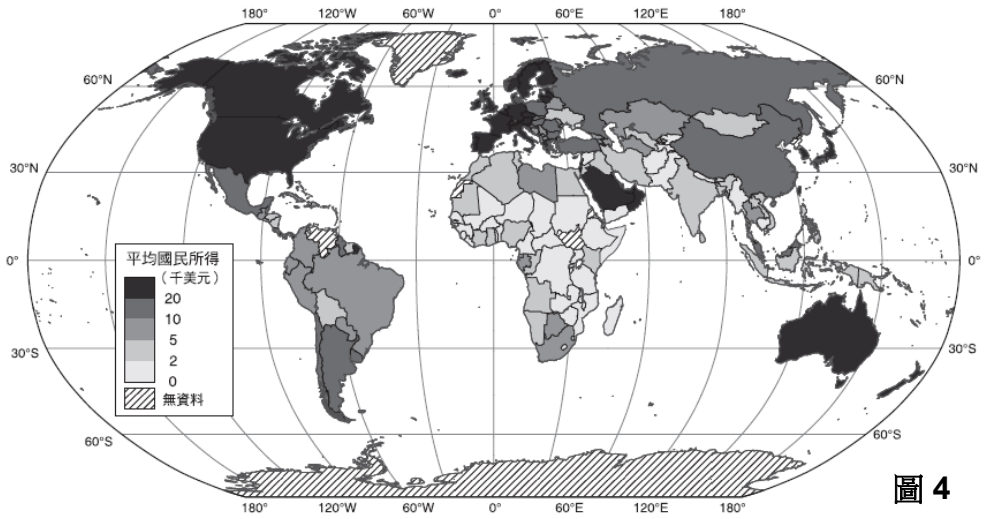

圖 4

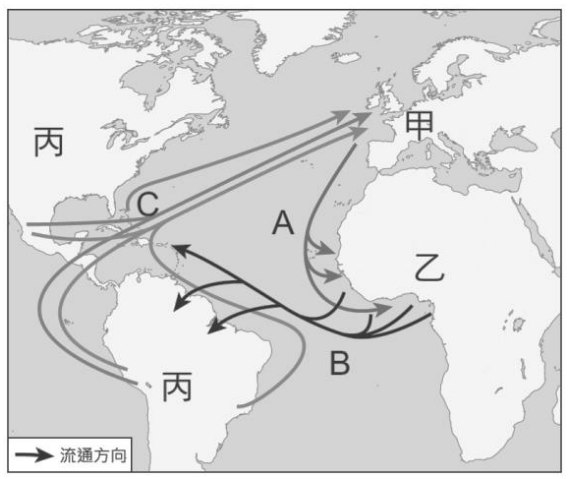

圖 5

15. 隨地理大發現，形成 16 ~ 18 世紀的三角貿易體系，關於圖 5 敘述何者正確？ (甲) A 路線順著加納利涼流；(乙) B 路線依賴西風；(丙) C 路線商品為工業製品；(丁)甲區為世界體系核心區；(戊)乙為世界體系半邊陲區；(己)丙區為世界體系邊陲區。
(A)甲乙丙 (B)丁戊己　(C)甲丁己　(D)乙丁戊

16. 墨西哥自 1960 年代開始發展加工出口業，鼓勵海外製造商到美國及墨西哥邊境的提華納從事邊境加工業務。這些工廠可免關稅進口原料或零件，在當地加工處理後出口至其他市場，此政策吸引主攻美國市場的製造商到墨西哥投資設廠。請問從世界體系的互動關係分析，哪一張示意圖可以顯示美墨之間在加工出口政策實施後的發展程度變化？

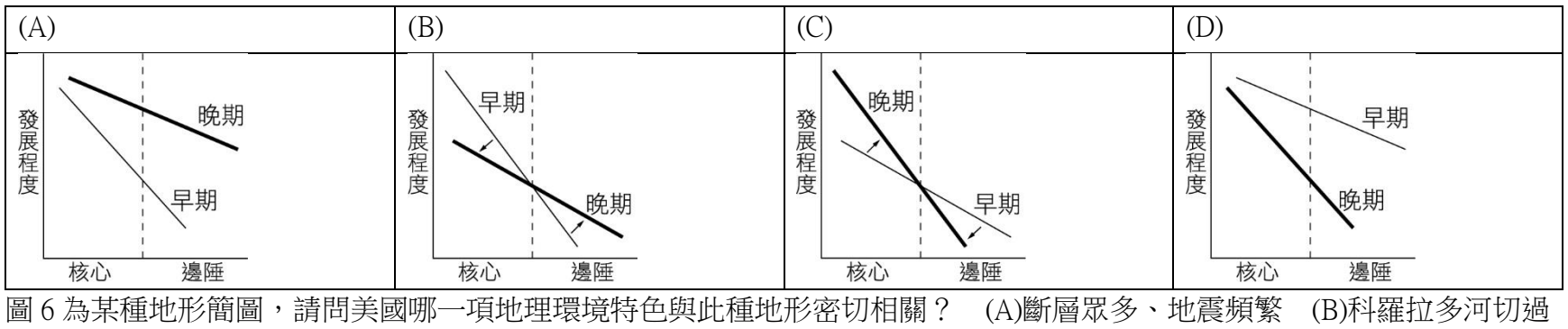

17. 圖 6 為某種地形簡圖，請問美國哪一項地理環境特色與此種地形密切相關？　(A)斷層眾多、地震頻繁　(B)科羅拉多河切過高原，形成壯麗的地形　(C)紐奧良是美國墨西哥灣岸的最大港口　(D)東部沿海通往五大湖區的天然交通孔道

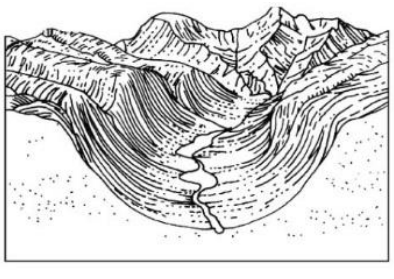

圖 6

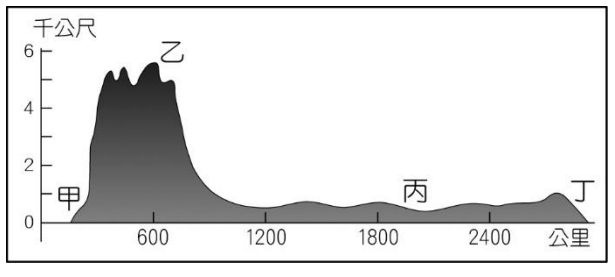

圖 7

18. 圖 7 是南美洲沿 23.5°S 的地形剖面圖。圖中哪個地點附近可見到熱帶沙漠氣候景觀？ (A)甲　(B)乙　(C)丙　(D)丁

19. 南美洲陸地因赤道貫穿且形狀為倒三角形，最可能造成下列何種影響？　(A)不具有溫帶沙漠氣候　(B)缺乏寒帶針葉林景觀　(C)熱帶濕潤氣候面積大　(D)夏雨型暖溫帶氣候南北對稱。

<u>20-21 為題組</u>

◎ 圖 8 為美國移民數量與來源地變化圖，美國近代移民現象可大致分為 I-IV 個階段。請問：

20. 美國移民現象大致可分為：(甲)工業化；(乙)邊疆拓展；(丙)解除移民限制；(丁)移民暫息，請問 I-IV 階段正確的移民現象順序為？
(A)甲乙丙丁 (B)甲丙丁乙 (C)乙丙丁甲 (D)乙甲丁丙

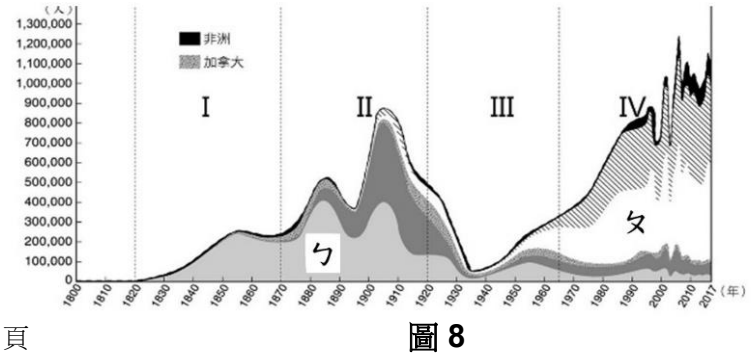

圖 8

21. 圖 8 中ㄅ、ㄆ應是何洲的移民？ (A)西北歐、中南美洲 (B)亞洲、中南美洲 (C)中南美洲、東南歐 (D)亞洲、西北歐

22-24 為題組

◎ 密西西比河是北美大陸流域面積最廣的水系，流經美國中央大平原，其南段曲流發達，馬克吐溫將其比作「削下來的長又彎曲的蘋果皮」，而當地居民則稱之為「老人河」。曲流成因可能受地面傾斜程度或岩層軟硬不同等因素影響，河道呈現彎曲狀，在河道彎曲處兩岸水流則因能量不一，形成兩側不同的地形樣貌，圖 9 為密西西比河某段河道，圖 10 為密西西比州與路易斯安那州的州界（虛線）。請問：



圖 9

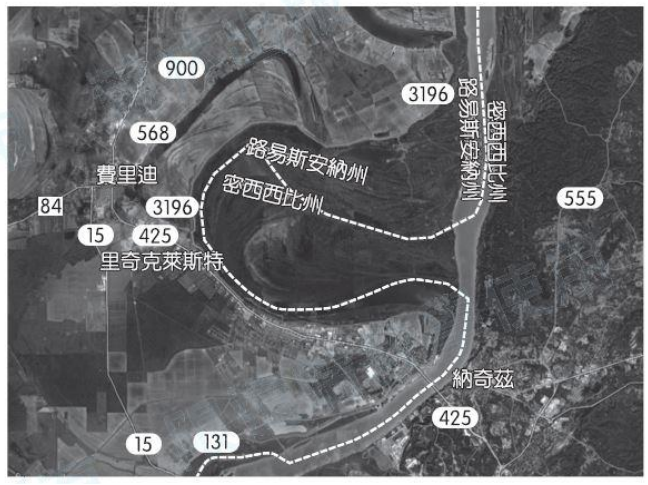

圖 10

22. 密西西比河地區的傳統農業生產，最可能具有下列哪項經營特色？ (A)農場耕地狹小，農地投入大量肥料 (B)作物種類單一，農產價格易受波動 (C)農牧生產並重，作物呈現高低分層 (D)大地主制盛行，殖民母國控制生產

23. 根據圖 9，請問甲乙的地形剖面與流速分布（單位：m/sec）符合下圖中的哪一幅？

(A)	(B)	(C)	(D)
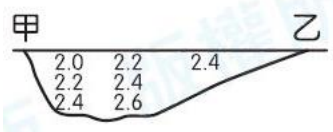	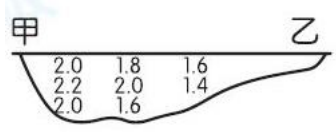	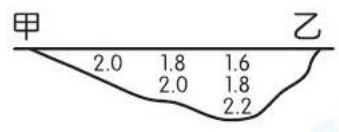	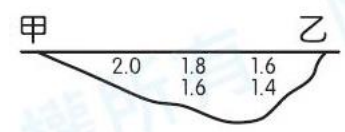

24. 圖 10 中可見路易斯安納州和密西西比州的州界(圖中虛線)，大多以密西西西比河為界，但某段州界卻脫離河道，突兀地向西繞了一個大彎，形成州界與河道不一致的情形，請問下列哪一推測正確？
(A)州界以古河道劃定，後來發生曲流截斷 (B)州界以過去的英國與法國殖民地來劃分
(C)河道因長期的下游淤積，而與州界不符 (D)因颶風侵襲而多次改道，故與州界不符

25-27 為題組

◎ 66 號公路東起芝加哥，西至洛杉磯，被稱為「母親之路」，曾為美國重要的交通幹道。20 世紀初美國中西部地區發生天災，迫使農民大規模遷移，這個歷史背景甚至編寫成小說，進而拍攝成電影，圖 11 為 66 號公路（圖中的黑粗線段）與美國的七大氣候類型(甲~庚)分布情況，請問：

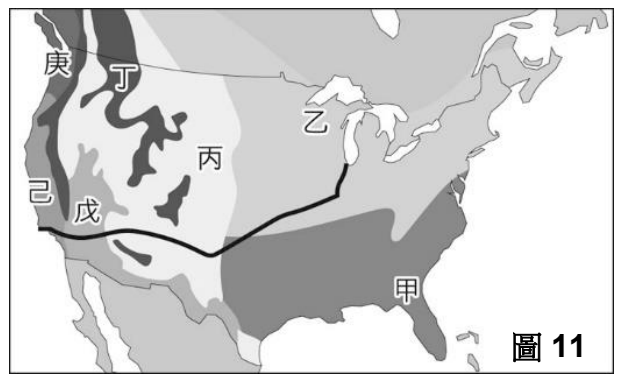

圖 11

25. 文中 20 世紀初期造成農民大量遷移的天災應該是下列哪一種？ (A)地震 (B)颶風 (C)旱災 (D)暴風雪

26. 66 號公路沿途經過的乙丙氣候分界與丙戊氣候分界，分別大致為年降水量多少的分界線？
(A)250mm、250mm (B)250mm、500mm (C)500mm、500mm (D)500mm、250mm

27. 農民遷移至洛杉磯之後，最可能在當地從事哪一種農業活動？ (A)放牧肉牛 (B)栽種香蕉 (C)栽種甘蔗 (D)栽種葡萄

28-30 為題組

◎ 圖 12 為北美某種氣象災害的景觀，圖 13 為北美簡圖。請問：

28. 圖 12 氣象災害最常出現在圖 13 中何地？ (A)甲 (B)丙 (C)丁 (D)戊

29. 圖 13 中由丁至戊往南，會看到哪些地形的變化呢？
(A)冰磧平原→冰蝕平原→風積黃土→河積平原
(B)冰蝕平原→冰磧平原→外洗平原→風積黃土→河積平原
(C)河積平原→風積黃土→外洗平原→冰磧平原→冰蝕平原
(D)風積黃土→河積平原→冰磧平原→外洗平原→冰蝕平原



圖 12



圖 13

30. 旅行者遊歷至圖 13 乙地，最可能留下哪一段手札？

手札一：三月積雪仍厚，利用假日郊遊滑雪，雖然寒冷，仍得做好防曬……。

手札二：七月穿的短袖衣服一月穿也相當合適；陣雨像是識途老馬，總在午後報到……。

手札三：憑良心講，騎駱駝真的是很恐怖的記憶，尤其是從駱駝背上落地，彷彿是突然從二樓降到一樓……。

手札四：二月還沒過一半，就一連下了七天的雨，旅店外的溫度計顯示現在是攝氏六度，穿著毛衣走在陰雨的街道上……。

(A)手札一　(B)手札二　(C)手札三　(D)手札四



圖 14

31. 圖 14 為某種特殊的地形景觀，最有可能分布於圖 13 的哪處？　(A)甲 (B)乙 (C)丙 (D)丁

<u>31-32 為題組</u>

◎ 科技化農業是美國農業的特色之一，廣泛運用某三項地理技術，對農地定位、定時、定量的現代化操作，根據每一塊農地的具體情形，因地制宜地進行管理並匯入資料庫，用來分析農地的環境與時空狀況，並讓農民即時掌握，以提升產量與維持品質的穩定性，達到最高的農業收益，圖 15 是美國某農作帶採用的科技化經營，請問：

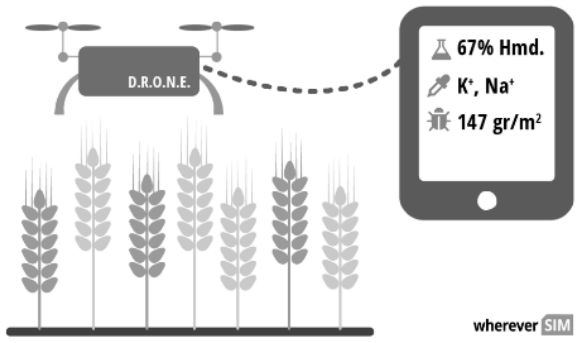

圖 15

32. 關於圖 15 是某農作帶經營變化，請問下列敘述何者正確？　(甲)這種工作方式稱為精準農業；(乙)該農作帶屬於市場指向集約農業；(丙)該作物在美國有兩種產期；(丁)圖中作物可能是甘蔗；(戊)該農作帶所處溫帶海洋氣候　(A)甲丙 (B)乙丙 (C)甲戊 (D)丙戊

33. 文中提及的「地理技術」包含哪三項技術？ (甲) LBS；(乙) GIS；(丙) GPS；(丁) RS。

(A)甲乙丙　(B)乙丙丁　(C)甲丙丁　(D)甲乙丁

<u>33-34 為題組</u>

◎ 表 2 為歐裔白人、印第安人、非裔黑人、亞裔、拉丁裔組成變遷資料，印證了美國「民族拼盤」之稱號。請問：

表 2　（單位：%）

族群／年代	甲	乙	印第安人	丙	丁
2000	69.1	12.1	0.7	3.6	12.6
2010	63.7	12.2	0.7	4.7	16.4
2020	57.8	12.1	0.7	5.9	18.7

34. 由表 2 推估，表中甲、乙、丙、丁各代表哪些族群？　(A)非裔黑人、歐裔白人、亞裔、拉丁裔　(B)拉丁裔、亞裔、非裔黑人、歐裔白人　(C)歐裔白人、非裔黑人、亞裔、拉丁裔　(D)歐裔白人、拉丁裔、亞裔、非裔黑人

35. 圖 16 是美國某族群人口比例圖。該圖最可能是表 2 哪個族群的空間分布圖？　(A)甲　(B)乙　(C)丙　(D)丁

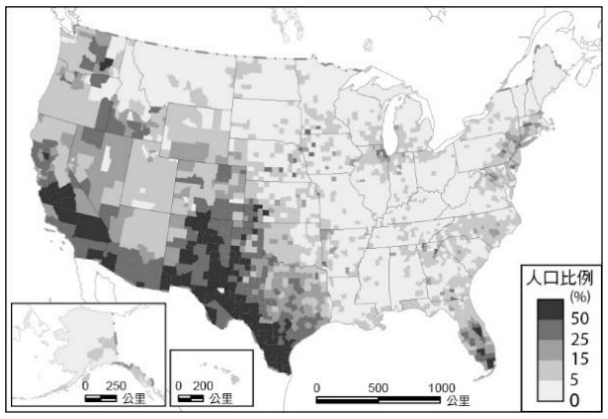

圖 16



圖 17



圖 18

<u>35-36 為題組</u>

◎ 中南美洲的印第安文明曾璀璨一時，共有三大古文明：

36. 圖 17 是《變身國王》(*The Emperor's New Groove*)，迪士尼 2000 年發行上映的電腦動畫電影。故事以某文明為背景，描繪一個自我中心的庫斯德國王，被他的前顧問伊絲瑪和她愚蠢的手下高剛變成了一隻駱馬，為了變回人類，他委託村長貝查護送他回到宮殿，以免伊茲瑪殺死他們的冒險故事。請問文中指的文明是圖 18 中的何者？ (A)甲　(B)乙　(C)丙　(D 丁

37. 印第安人在農業上培育出許多作物，隨著歐洲人擴張的腳步傳播至世界各地，改變許多地方的飲食文化。請問下列哪些作物為印第安人所培育？　(甲)馬鈴薯；(乙)番茄；(丙)南瓜；(丁)油棕；(戊)辣椒；(己)咖啡。

(A)甲乙丙丁　(B)甲乙丙戊　(C)乙丙丁己　(D)丙丁戊己

<u>37-38 為題組</u>

◎ 圖 19 為南美洲簡圖，請問：

38. 圖 19 中哪些地理區地質上是屬於古結晶地塊？(A)A 區、B 區、C 區 (B)A 區、C 區、E 區 (C)B 區、D 區、G 區 (D)A 區、B 區、G 區

39. 請問關於 E 區的氣候特徵下列何者正確？
(A)全年有雨、秋冬多雨 (B)暖流流經、全年高溫 (C)東北信風帶夏季移入 (D)7 月時迎海風而多雨

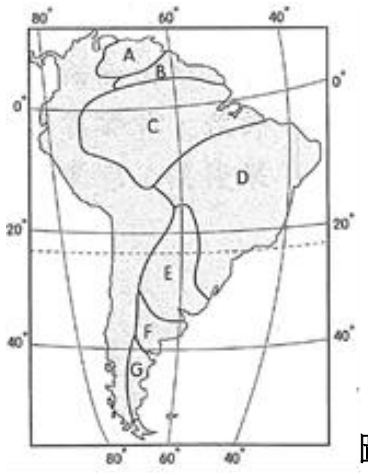

圖 19

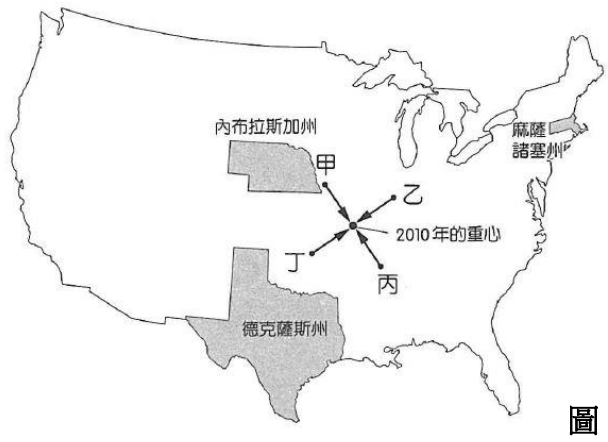

圖 20

<u>39-40 為題組</u>

◎ 美國普查局發布的人口普查報告指出，人口消長對美國政治與經濟帶來重大影響。圖 20 為美國部分行政區與人口移動方向示意圖，圖中的圓點為 2010 年人口分布的重心。請問：

40. 人口重心可表示一區人口分布的總體趨勢或中心區位，請問圖 20 中哪一箭頭方向，較能表示 1950 年起至 2010 年美國人口重心轉移的變化？(A)甲 (B)乙 (C)丙 (D)丁

41. 從 1950 年至 2010 年美國人口重心轉移，與下列哪一地理事實最為相關？
(A)鐵鏽帶的產業升級 (B)陽光帶的產業崛起 (C)東北都會的郊區化 (D)東西橫貫鐵路開通

<u>41-43 為題組</u>

◎ 圖 21 為美國的工業區分布圖。請問：

42. 美國總統川普的經濟方針是奉行「美國優先」的保護主義，他揚言提高進口關稅，迫使企業擴大在美投資，或將產線移回國內，對他而言「創造就業」之重要，是其「讓美國再次偉大」的重要關鍵。請問其「產業回流」政策若成功，圖 21 中哪一處的工業區受惠最大？ (A)乙 (B)丙 (C)丁(D)戊

43. 圖 21 的丙、丁以及戊工業區為二十世紀崛起的新興工業區，有關該工業區哪項的敘述正確
(A)丙區以富煤鐵的優勢發展航太工業 (B)丁區具有大量黑人勞工的成本優勢
(C)戊區具有產業群聚帶來的創新效益 (D)丙丁戊三區的產業皆屬於知識經濟

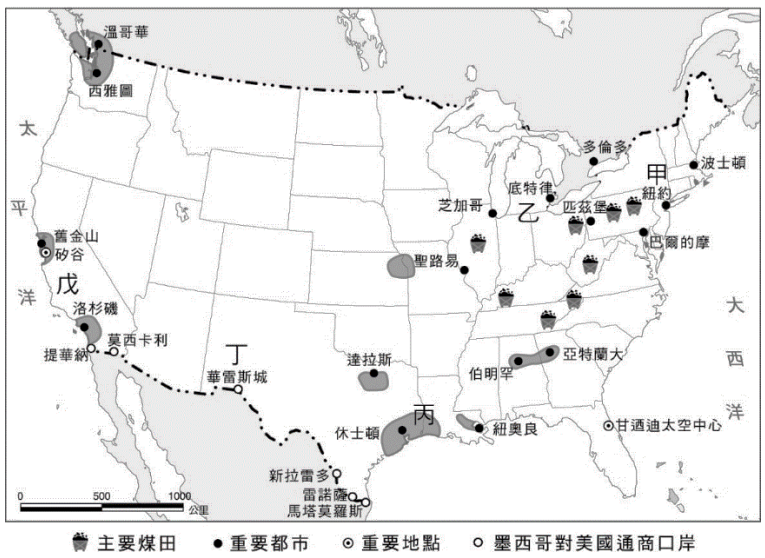

圖 21



圖 22

<u>44-45 為題組</u>

◎ 曾有一間中國公司計畫在尼加拉瓜投資 500 億美元，開鑿一條橫越尼加拉瓜的運河。圖 22 為當時尼加拉瓜運河模擬路線，規劃的長度、寬度與深度均超越南方的巴拿馬運河，此運河的興建牽涉到貿易、經濟、政治等層面，計畫宣布之際轟動全球。請問：

44. 下列何者最有可能為圖 22 中尼加拉瓜西岸地區的氣候類型？

(A)
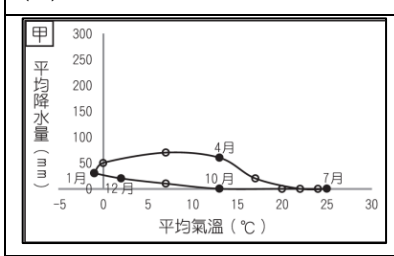

(B)
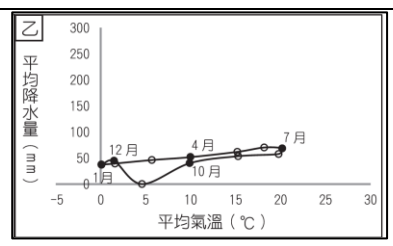

(C)
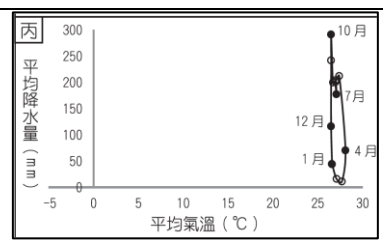

(D)
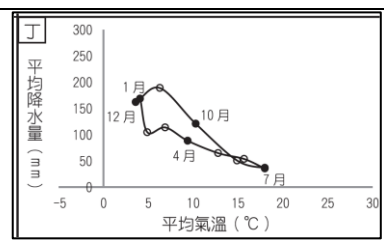

45. 若運河啟用後，若僅考慮距離要素，古巴沿海港口到下列哪個地區的海運，比起過去利用巴拿馬運河的航程，其距離縮短最多？ (A)美國洛杉磯 (B)秘魯利馬 (C)巴西里約 (D)加拿大魁北克

46-47 為題組

◎ 圖 23 為 2018 年全球五個大洲各種規模都市的都市人口比例圖。

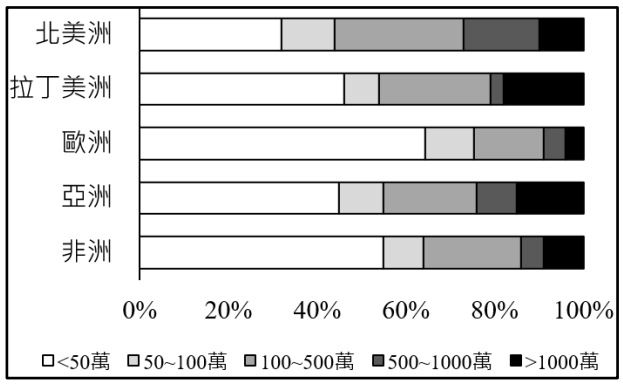

圖 23

46. 若將拉丁美洲與歐洲兩者資料相比較，最可能推論出拉丁美洲的都市發展具有下列哪項特色？
(A)政府積極推動首要型都市政策，能吸引人口移往大型都市
(B)大型都市就業機會相對充分，促使鄉村人口大量移入求職
(C)鄉村產業結構不夠健全，許多失業人口移動至大型的都市
(D)殖民時代的大型都市，迄今公共設施充足，導致人口移入

47. 根據圖 23 中各種規模都市的都市人口比例資料，拉丁美洲的都市型態最適合以下列哪種圖示呈現？

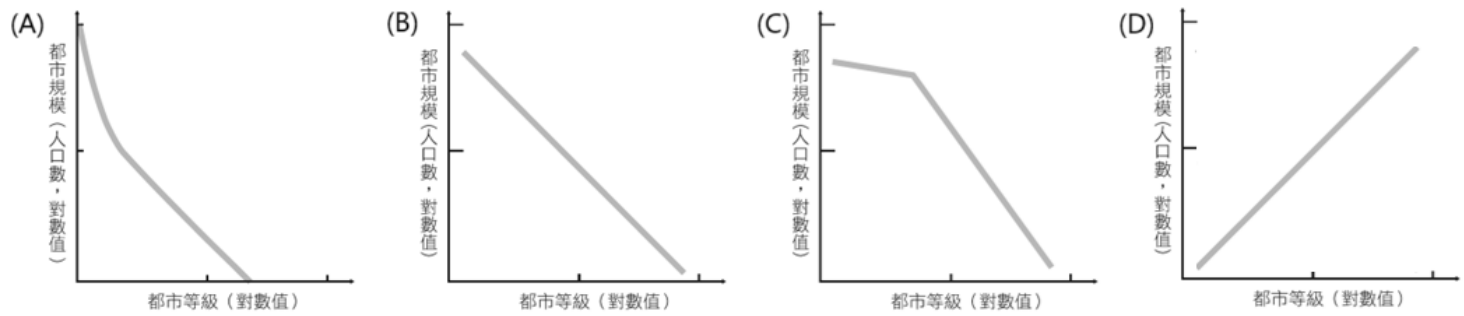

48-50 為題組

◎ 隨著 2022 年全球疫情逐步解封，加上俄烏戰爭的影響，國際原物料的價格普遍抬升，世界各國大多面臨嚴重的通膨壓力，其中位於中南美洲的阿根廷尤為慘烈。事實上，阿根廷早在 2018 年就已陷入嚴重的經濟危機，2022 年的通膨率預估將高達 54.8%，不僅人民生活壓力大，連美國跨國零售企業沃爾瑪、Nike 和南美航空等外資也已經宣布放棄阿根廷市場。

為了解決國內的經濟問題，阿根廷政府把目光望向了「金磚國家（BRICS）」集團，金磚國家由巴西、俄羅斯、印度、中國和南非五個國家組成，因此又稱「金磚五國」，其總人口超過全球 40%，更占全球經濟的 26%左右。對於阿根廷來說，金磚國家不僅是個強大的新興經濟市場，其中的巴西、中國、印度，也是阿根廷最主要的進出口貿易夥伴。

2022 年 7 月，中國正式對阿根廷加入金磚國家集團表示支持，由於中國今年擔任金磚國家的主席國，因此中國的表態顯得至關重要，阿根廷也早在同年二月便宣布加入中國「一帶一路」計畫，強化雙方投資與基礎建設方面的合作。

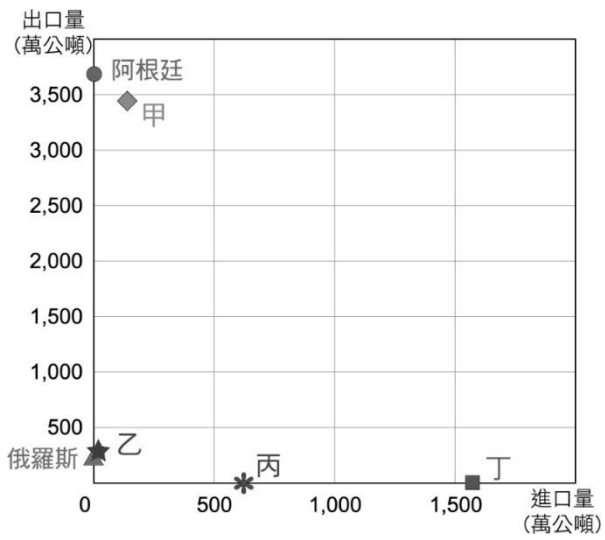

圖 24

然而金磚國家成員在俄烏戰爭等眾多議題上，多與歐美國家抱持著不同的意見，因此常被視為抗衡歐美市場的勢力，若阿根廷加入金磚國家，可能將與美國和歐洲的關係產生變化。圖 24 是阿根廷與金磚五國某項產品的進、出口量散布圖。

＊名詞解說－-通膨率：指物價的平均上升幅度。以文中阿根廷為例，若今年的通膨率為 54.8%，代表今年的平均物價比去年增加 54.8%，即去年 100 元能買到的東西，今年要 154.8 元才能買到。

48. 下列哪些因素是造成阿根廷高通膨率的原因呢？(甲)單一農礦出口 (乙)人口負成長 (丙)國債比重高 (丁)貧富差距小
(A)甲乙 (B)甲丙 (C)乙丙 (D)丙丁

49. 圖 24 中可看出阿根廷在該產品的貿易中，是六國中出口量最多的國家，此圖最可能是哪項產品的散布圖？ (A)黃金 (B)石油 (C)玉米 (D)小麥

50. 並非所有金磚國家的成員都支持阿根廷的加入，進出口貿易的競爭，也是各成員國考量的原因之一。從圖 24 中判斷，阿根廷如果加入金磚國家，最可能對哪個成員造成威脅？(A)甲 (B)乙 (C)丙 (D)丁

試題到此結束 補考日期 2 月 5、6 日，補考出席狀況將列入暑假重補修的參考



羽蛇神形象示意圖，是中美洲古文明當中普遍被信仰的神祇，形象為全身布滿羽毛的蛇，象徵重生。

參考答案

1	2	3	4	5	6	7	8	9	10
C	D	D	B	C	D	D	A	B	D
11	12	13	14	15	16	17	18	19	20
C	B	A	A	C	A	D	A	C	D
21	22	23	24	25	26	27	28	29	30
A	B	B	A	C	D	D	D	B	D
31	32	33	34	35	36	37	38	39	40
C	A	B	C	D	C	B	C	B	B
41	42	43	44	45	46	47	48	49	50
B	A	C	C	A	C	A	B	C	A